රාජකීය විද්‍යාලය - කොළඹ 07 .

දෙවන වාර පරීක්ෂණය

ගණිතය - 3 වන ශ්‍රේණිය -2019

නම: .... අංකය: .... පන්තිය:..........

(01) <u>ගැලපෙන පිළිතුර යටින් ඉරක් අඳින්න.</u>

1) දිග මැනීමේ සම්මත ඒකකය වන්නේ

1. මීටරය 2.කිලෝග්‍රෑම් 3. ග්‍රෑම් 4. මිලි ලීටර්

2) අද බදාදා නම් හෙට කවදාද?

1. සෙනසුරාදා 2. සඳුදා 3. බ්‍රහස්පතින්දා 4. සිකුරාදා

3) ලංකාවේ නිදහස් දින සමරනුයේ කිනම් මාසයේද?

1. ජනවාරි 2. පෙබරවාරි 3. මාර්තු 4. අප්‍රේල්

4) සතියට ඇති දින ගණන.

1. 24 කි 2. 07 කි 3. 30 කි 4. 05 කි

5) මුදල් නෝට්ටුවක ඇති විශේෂ ලක්ෂණයකි.

1. වටිනාකම සඳහන් නොවීම. 2. වර්ණය සමාන වීම.

3. රූප සමානවීම. 4. නිකුත්කළ දිනයක් තිබීම.

6)  මෙම භාජනයට අල්ලන ජල පරිමාව වනුයේ.

1. ලීටර් තුන කි. 2. මිලි ලීටර් 3 කි.

3. ලීටර් දෙදහ කි 4. ලීටර් තුන්සිය කි .

7) රුපියල් 20.00 නෝට්ටුවේ වර්ණය වන්නේ

1. නිල් 2. දම් 3. රෝස 4. කොළ

8) මිලි ලීටර් 100 නිවැරදිව ලියා ඇත්තේ

1. 100 ml 2. 100 Ml 3. ml 100 4. LM 100

9) ද්‍රව මැනීමේ සම්මත ඒකකය වන්නේ

1. ලීටර 2. මිලි ලීටර 3. මිලි මීටර 4. සෙන්ටි මීටර

10) ඝනකයෙහි දාර කීයද?

1. 8 2. 6 3. 9 4. 12

(1x 10 =10)

(02) <u>කුඩා සංඛ්‍යාවේ සිට විශාල සංඛ්‍යාව තෙක් පටිපාටිගත කරන්න.</u>

1) 423 , 483 , 435 ...., ..., ...

2) 79 , 78, 66 ...., ..., ...

3) මෙම සංඛ්‍යාවල පෙර හා පසු සංඛ්‍යාව ලියන්න.

1. ...., 500 , ... 2. ...., 479 , ...

4) සංඛ්‍යාව විහිදුවා ලියන්න.

329 ⟶ .... +............ +............

5) සංඛ්‍යා නාමය ලියන්න.

136 - ....

6) 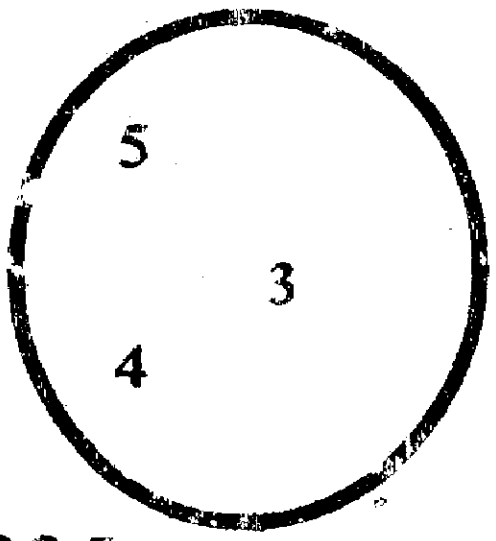

මෙම සංඛ්‍යා වලින් සෑදිය හැකි විශාලම සංඛ්‍යාව ලියන්න. ....

7) 325 ගණක රාමුවේ නිරූපනය කරන්න.



සි ද ඒ

(2x 8 =16)

(3) භාණ්ඩ කිහිපයක මිල ගණන් පහතින්ද දක්වා ඇත.ඒවා අනුව නිවැරදි පිළිතුරු සපයන්න.

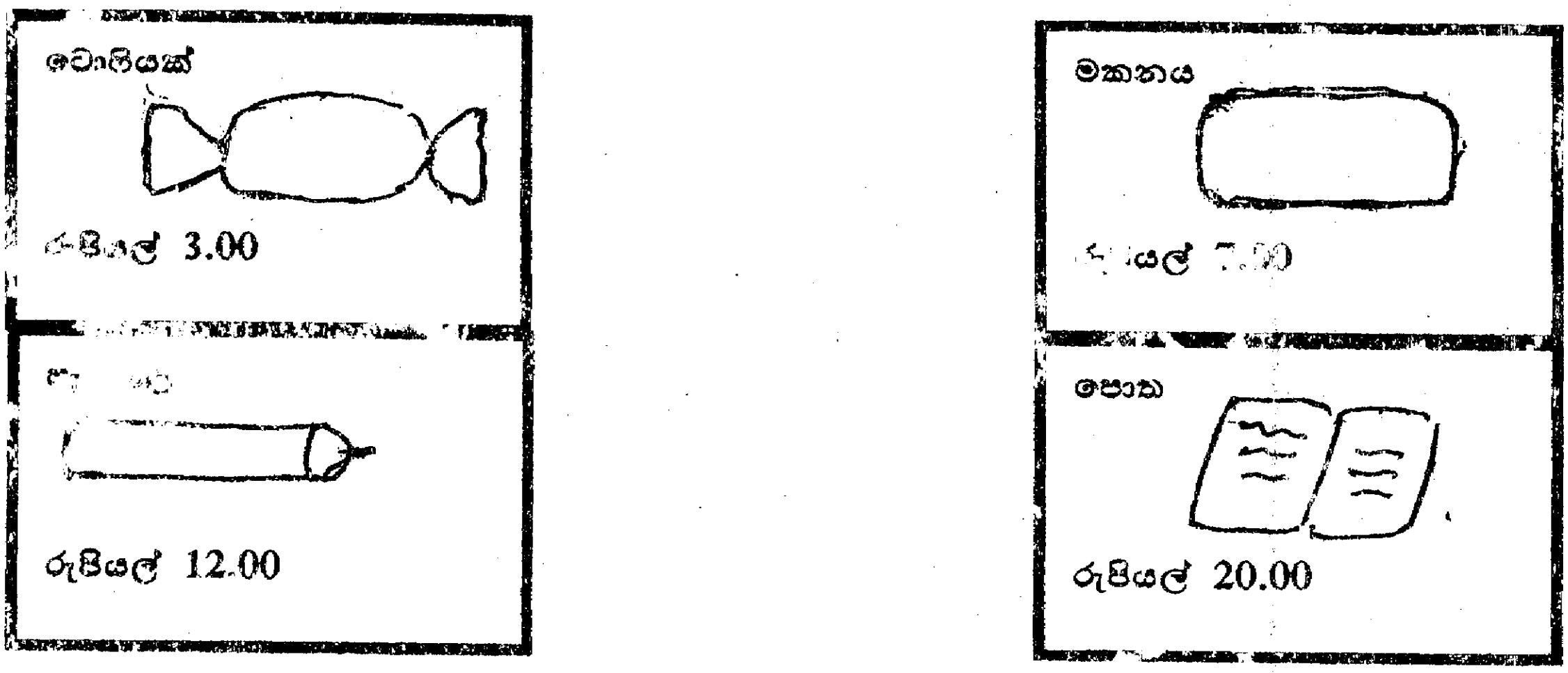

1) පොතක් මිල දී ගැනීමට මුදල් ගෙවිය යුතු ආකාරය ලියන්න.

....

2) ටොෆි 2ක් මිල දී ගැනීමට අවශ්‍ය මුදල කීයද?

....

3) මකනයක් මිල දී ගැනීමට මුදල් ගෙවිය යුතු ආකාරය ලියන්න.

....

4) පැන්සලක් හා ටොෆියක් මිල දී ගැනීමට ගෙවිය යුතු මුදල කීයද?

....

5) රුපියල් 10.00 කට මිල දී ගත හැකි භාණ්ඩ 2 ක් ලියන්න.

....

(2x 5 =10)

(4) පහත ගැටලු විසඳන්න.

(1)	(2)	(3)	(4)
4 5	8 7	5 ☐	☐ 2
+2 6	+1 3	+ 1 2	+ 3 0
		☐ 6	8 2

(5)	(6)	(7)	(8)
9 7	6 8	☐ 8	1 2
- 2 5	- 3 7	- 2 5	- ☐
____	____	5 ☐	0 5

බෙදන්න.

(9)

2 | 2 6

(10)

2 | 4 8

(2x 10 =20)

(5) හිස්තැන් පුරවන්න.

1) 7 x 2 = ☐

2) 2 x ☐ = 1 0

3) ☐ x 10 = 8 0

4) ☐ x 4 = 20

5) 2 x 4 = ☐

(1x 5 =5)

(7) පහත ගැටලු විසඳන්න.

1) බෝතලයක රතු බෝල 68ක් ද, නිල් බෝල 24 ක්ද, තිබුණිනම් . බෝතලයේ ඇති මුළු බෝල කීයද?

....

2) පෙට්ටියක ඇපල් 10 බැගින් පෙට්ටි 4 ක ඇපල් කීයද?

....

3) කූඩයක අඹ 75ක් තිබිණි ඉන් අඹ 20ක් නරක් වී ඉවත් කලේ නම් කූඩයේ අඹ කීයද? ....

4) පැන්සල් 17ක් දෙදෙනෙක් අතර සමානව බෙදා දුන්නේ නම් එක් අයෙකුට ලැබෙන පැන්සල් ගණන කීයද? ....

ඉතිරි පැන්සල් ගණන කීයද? ....

(2x 5 =10)

(8) රටාව හඳුනාගෙන ඊළඟ සංඛ්‍යාව ලියන්න:

1) 2 , 4 , 6 , 8 ....
2) 7 , 12 , 17 , 22 ....
3) 17 , 27 , 37 , 47 ....
4) 3 , 5 , 7 , 9 ....
5) 50 , 45 , 40 , 35 ....

(1x 5 =05)

(9) පහත රූපවල සමමිතික රේඛා ඇඳ පෙන්වන්න.

1.


2.


පහත රූපවලින් ½ ක් පාට කරන්න

3
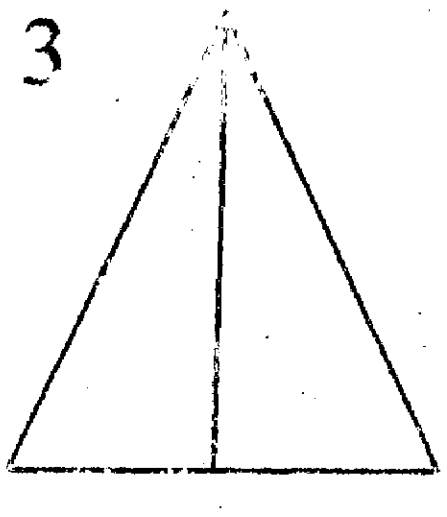

4.
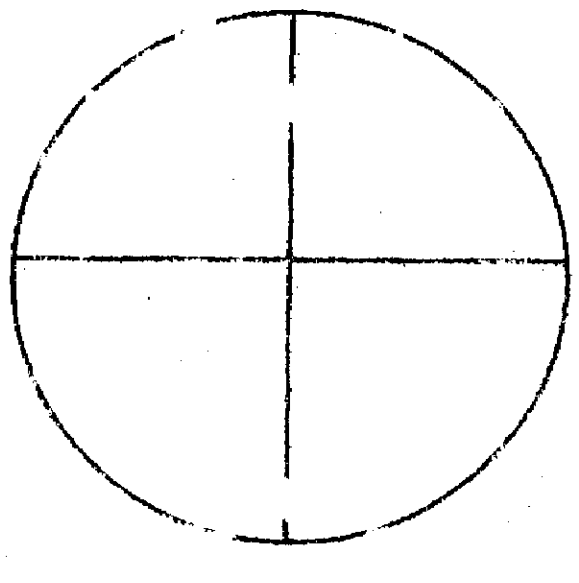

පහත රූපවලින් ¼ ස් පාට කරන්න

5

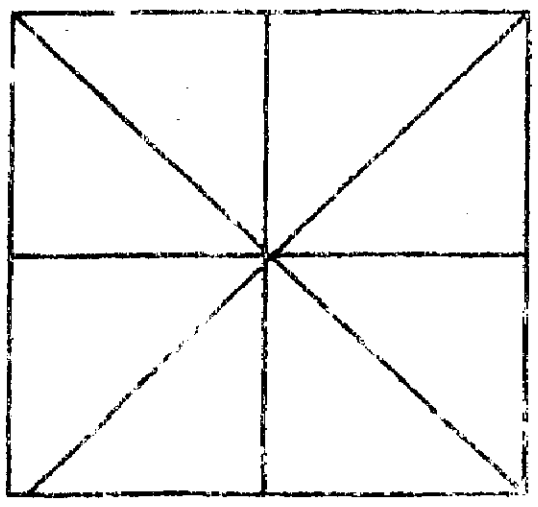

6.

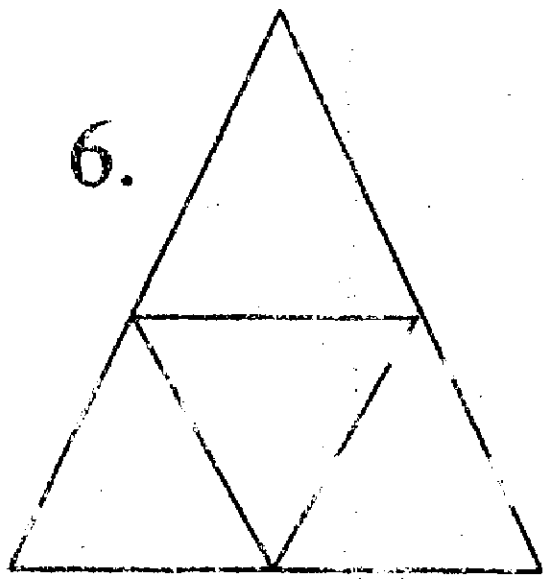

7 පහත දැක්වෙන ඔරලෝසුවේ වේලාව 2.00 සඳහන් කරන්න.



(2x 7 =14)

(10)<u>එක්කරා ළමයි කණ්ඩායමක් කැමති පලතුරු වර්ග [illegible]</u>

අඹ 3

ඇපල් 6

දොඩම් 6

රඹුටන් 5

අඹ	ඇපල්	දොඩම්	රඹුටන්

([illegible] 4)

1) ඉහත දත්ත ප්‍රස්තාරයක ඉදිරිපත් කරන්න.
2) ළමයි සමාන ගණනක් කැමති පලතුරු මොනවාද? ....
3) අඩුවෙන්ම කැමති පලතුර මොනවාද? ....
4) රඹුටන් කෑමට කැමති ළමුන් කීයද? ....
5) අඹ වලට වඩා රඹුටන් කෑමට කැමති ළමුන් ගණන කීයද? ....
6) කණ්ඩායමේ ළමුන් ගණන කීයද? ....

(1x 6 =06)